Problèmes

Anaïs et Martin sortent de l'Euromag où ils ont fait quelques achats pour le goûter d'anniversaire de leur petite soeur.



Combien ont-ils payé ?

Ils ont payé _____.

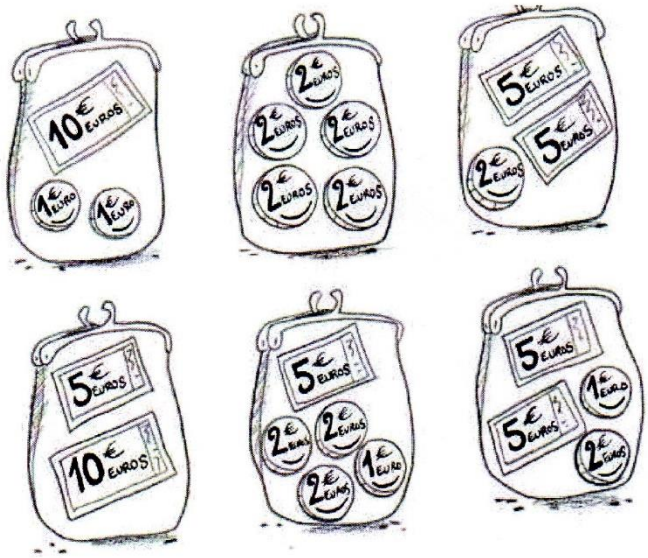

Entoure <u>les</u> porte-monnaie qui contiennent la somme exacte du prix du goûter.

Voici le billet qu'Anaïs a donné pour payer le goûter :

Combien la caissière lui a-t-elle rendu?

La caissière lui a rendu _____.

Dessine les pièces et/ou les billets qu'elle a pu lui rendre.

Problème

Finalement, Anaïs et Martin décident d'inviter plusieurs amis. Ils retournent faire les courses. Voici le ticket de caisse :



EUROMAG de Nancy
20-11-2010

Jus d'orange x2	_____
Jus d'ananas x1	_____
Cookies x4	_____
Gâteau au chocolat x2	_____
Sucettes x5	_____
Total	_____

Complète le ticket de caisse et indique combien ils vont payer en tout.

Ils ont payé _____.

Voici le billet qu'Anaïs a donné pour payer le goûter :



Combien la caissière lui a-t-elle rendu?

La caissière lui a rendu _____.

Dessine les pièces et/ou les billets qu'elle a pu lui rendre.